ヘッジブリッジ Hedge Bridge

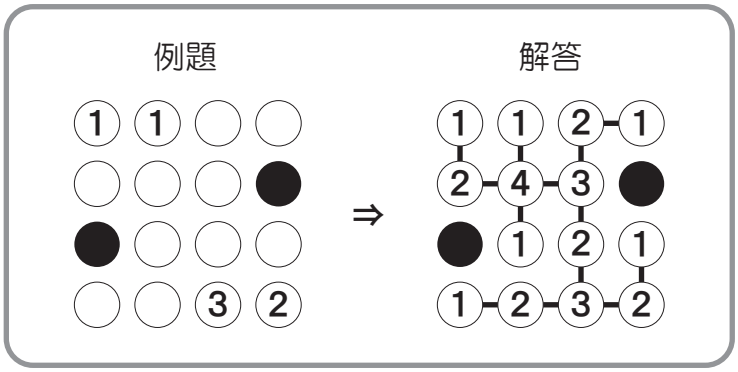

≪ルール≫

すべての○に数字を入れてください。数字は、その○からタテヨコに隣接した○のいくつに橋がかけられるかを表します。同じ数字が入った○どうしに橋はかけられません。すべての○は橋によってひとつながりになります。

1.



2.



3.



4.



5.